Adı : .....
Soyadı: .....

3. Sınıf
Matematik

Toplama İşlemi
Yaprak Test-1

Yüzlük	Onluk	Birlik
		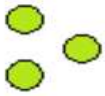

1 Yukarıdaki tabloda verilen sayının 125 fazlası hangisidir?

(A) Altı yüz seksen sekiz

(B) Altı yüz altmış sekiz

(C) Altı yüz yetmiş yedi

A = Üç basamaklı en küçük sayı

B = Üç basamaklı en küçük tek sayı

C = Üç basamaklı en küçük çift sayı

2 Yukarıda verilen bilgilere A+B+C=?

(A) 301 (B) 302 (C) 303

100	10	100	10
10	100	10	100
1	10	100	1
1	100	1	10

3 Yukarıdaki tabloda verilen sayıların toplamı kaçtır?

(A) 664 (B) 564 (C) 674

125+139 = 

168+257 = 

4 Yukarıdaki verilen bilgilere göre yıldız ile güneşin toplamı kaçtır?

(A) 698 (B) 719 (C) 689

Bir gemide 850 yolcu vardır. Bu yolcuların 345'i erkek, 326'sı kadın yolcudur. Geri kalanı ise çocuktur.

5 Yukarıdaki gemide kaç tane çocuk bulunmaktadır?

(A) 671 (B) 179 (C) 181

5 yüzlük + 4 onluk + 8 birlik

+ 3 yüzlük + 9 onluk + 7 birlik

6 Yukarıdaki basamak değerleri verilen sayıların toplamı kaçtır?

(A) 945 (B) 835 (C) 935

Adı : .....
Soyadı: .....

3. Sınıf
Matematik

Toplama İşlemi
Yaprak Test-1

476	348	461	369	375	482

7 Yukarıda verilen sayılardan en büyük ve en küçük sayının toplamı kaçtır?

A) 851 B) 830 C) 875

235	240	245	A	255	B

8 Yukarıdaki örüntüye göre A ile B sayılarının toplamı kaçtır?

A) 510 B) 520 C) 515

3/D sınıfında 25 erkek öğrenci vardır. Kızların sayısı ise erkeklerden 4 eksiktir.

9 Yukarıdaki bilgilere göre 3/D sınıfının mevcudu kaçtır?

A) 46 B) 50 C) 54

$35 + (25 + 18) = 25 + (35 + \square)$

10 Yukarıdaki toplama işleminde ■ yerine hangi sayı yazılmalıdır?

A) 43 B) 18 C) 78

4 2 7

11 Yukarıdaki rakamları bir kere kullanmak şartıyla yazılabilecek üç basamaklı en büyük sayı ile üç basamaklı en küçük sayının toplamı kaçtır?

A) 989 B) 978 C) 898

12 Ahmet 12 yaşındadır. Annesi ise Ahmet'ten 25 yaş büyüktür. Ahmet'in annesi 5 yıl sonra kaç yaşına girecektir?

A) 47 B) 37 C) 42

Doğru :..... Yanlış:.....

1	A	B	C		7	A	B	C
2	A	B	C		8	A	B	C
3	A	B	C		9	A	B	C
4	A	B	C		10	A	B	C
5	A	B	C		11	A	B	C
6	A	B	C		12	A	B	C

COPYRIGHT
Mustafa Kabul